باسمه تعالی　　　　آزمون ریاضی　　　　پایه سوم

نام و نام خانوادگی :　　　　　　　　دبستان :

۱ . طراوت ساعت **۱۰** قبل از ظهر همراه مادرش به بازار رفت . او پس از **۳** ساعت به منزل بازگشت . طراوت در چه ساعتی به منزل بازگشته است ؟

۲ . الهام ساعت **۹** قبل از ظهر از منزل خارج شد . او **۵** ساعت در کارگاه خیاطی و **۲** ساعت در پارک بود ، سپس به موزه رفت . او در چه ساعتی به موزه رفته است ؟

۳ . کارهای حسین در یک شبانه روز در جدول زیر آمده است ، آن را با توجه به رنگ های داده شده روی ساعت های زیر مشخص کنید و به سوالات زیر پاسخ دهید .

	خواب	نماز و صبحانه	مدرسه	نمازو ناهار	استراحت	درس خواندن	تماشای تلویزیون	نماز و شام	مطالعه آزاد
ساعت شروع	۲۲	۶	۷	۱۳	۱۴	۱۵	۱۸	۲۰	۲۱
ساعت پایان	۶	۷	۱۳	۱۴	۱۵	۱۸	۲۰	۲۱	۲۲
رنگ	سبز کم رنگ	زرد	آبی	نارنجی	قرمز	بنفش	قهوه ای	صورتی	سبز پر رنگ

حسین چند ساعت در مدرسه بوده است ؟ ....

چند ساعت به تماشای تلویزیون و مطالعه آزاد پرداخته است ؟ ....

در ساعت **۵** بعد از ظهر مشغول چه کاری بوده است ؟

....



بعد از ظهر



قبل از ظهر

۴ . هر شکل از چند مکعب درست شده است ؟

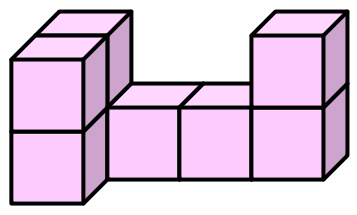

....

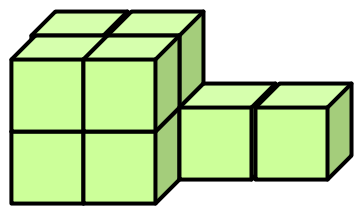

....

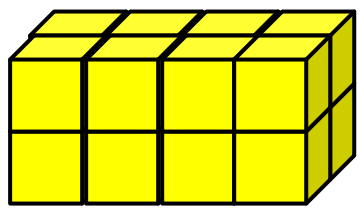

....